Fiche 26 - Aires - Introduction

Exercice 1 :
Soit les figure ci-dessous, déterminer pour chacune d'elles leur aire en prenant un carreau pour unité d'aire.

Exercice 2 :
Déterminer l'aire de chacune des figures ci-contre en prenant pour unité d'aire un carreau.

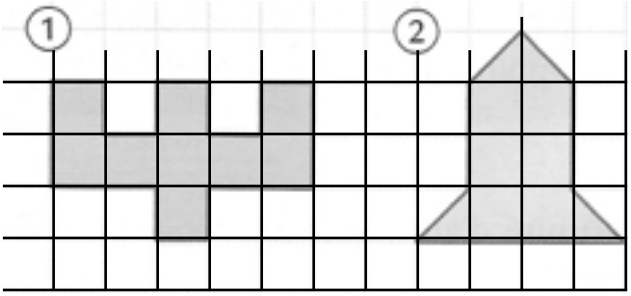

Exercice 3 :

1) Déterminer l'aire et le périmètre de chacune des figures ci-dessous en prenant les unités d'aire et de longueur représentées.

2) Comment s'ordonnent les aires par rapport aux périmètres ?

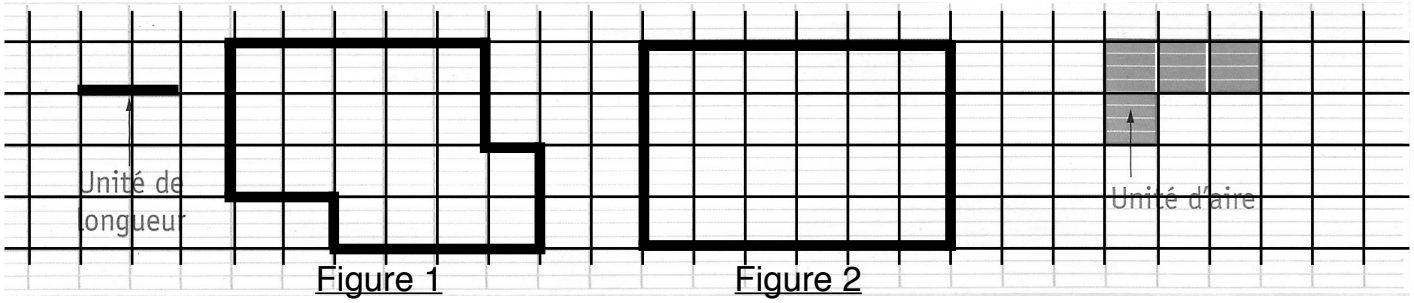

Exercice 4 :

1) Déterminer l'aire et le périmètre de chacune des figures ci-contre.

2) Ranger ces figures par ordre croissant d'aire et de périmètre.
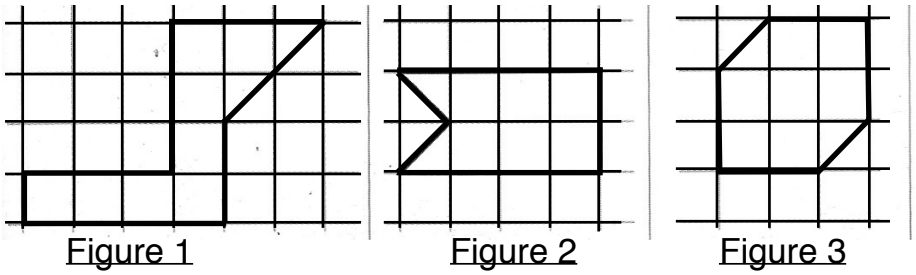
3) Que peut-on conclure ?